Board of Examinations for Seafarers Trust
Inland Vessel Examination (MMB)
(Sample Question Paper)
1st Class Master

Q1. List any three equipment used on inland vessels for communication.
इनलैंड वेसलच्या संभाषणसाठी उपयोगात येणारे तीन साहित्यांची नावे लिहा
इनलैंड वेसल में संचार के लिए प्रयोग होनेवाली किसी तीन उपकरणों के नाम लिखें |

1.	2.	3.

Q2. Write any three precautions to be observed against fire in a dry-dock.
ड्राई डॉकला आगीपासून वाचविण्यासाठी कोणत्या तीन सुरक्षा घेतात, ते लिहा ?
ड्राई डॉक में आग से बचाव के लिए किन्हीं तीन सावधानियों को लिखें |

1.	
2.	
3.	

Q3. Write the meaning of the following signal flags.
खालील फ्लैग-संकेत चा अर्थ लिहा |
निचे दिए गए सिग्नल फ्लैग का तात्पर्य (अर्थ) लिखें |

Flag "B"	
Flag "G"	
Flag "O"	

Q4. List any three warning signs of an approaching cyclone.
जवळच्या तुफानाविषयी सावधगिरीच्या तीन सूचना लिहा
निकट आ रहे तूफान के किन्हीं तीन चेतावनी के लक्षण (संकेतों) को लिखें |

1.	
2.	
3.	

Q5. Identify and name the following vessels.
खालील वेस्सेल ला ओळखून त्यांचे नाव लिहा |
निचे दिए गए वेसल्स को पहचाने और इनके नाम लिखें।





Q6. Explain in not more than four lines Rule no. 19 of ROR (Conduct of Vessels in Restricted Visibility).
आर.ओ.आर नियम क्रं १९, चे जास्तीत जास्त चार ओळीत विवरण सांगा |
आर.ओ.आर के नियम संख्या १९ को अधिक से अधिक, चार पंक्तियां में समझाएं (प्रतिबंधित दृश्यता में जहाजों का संचालन)

1.	
2.	
3.	
4.	

Q7. List any four factors those determine the length of chain to be laid out during anchoring.
अँकरिंग साखळीची लांबी निर्धारित करणारे चार घटक लिहा |
किसी भी चार कारकों को लिखें जो की चैन की लंबाई को एंकर डालने के समय पे निर्धारित करता है।

1.	
2.	
3.	
4.	

Q8. As per IV rule, write any three occurrences when the master has to make report to nearest police station for investigation.
इनलैंड वेसल च्या नियमानुसार कोणत्या तीन घटना असतात, ज्याची माहिती मास्टरला, जवळील पोलीस स्टेशनला द्यावी लागते |
इनलैंड वेसल के नियमानुसार, किसी तीन घटनाओं का उल्लेख करें , जब मास्टर को नजदीकी पुलिस थाने में इसकी सुचना देनी पड़ती है |

1.	
2.	
3.	

Q9. List the four hazards associated with COAL cargo.
कोयला कार्गो संबधीत चार धोक्यांची यादी व विवरण लिहा
कोयला कार्गो से सम्बंधित चार खतरों की सूची का उल्लेख करें |

1.	
2.	
3.	
4.	

Q10. Show the following in the below given picture by drawing an arrow from it.
खालील चित्र बघा आणि खाली विचारलेल्या जहाजाच्या भागांना बाण दाखवून उत्तरे दया।
निम्नलिखित को, निचे दिए हुए चित्र में देखकर, रेखाचित्र (तीर के निशान) के द्वारा दर्शाएं।

a) Leading line /लीडिंग लाइन b) Isolated Danger Buoy / आइसोलेटेड डेंजर बॉय

c) South Cardinal Buoy / साउथ कार्डिनल बॉय d) Submerged rocks / समर्ज रॉक्स

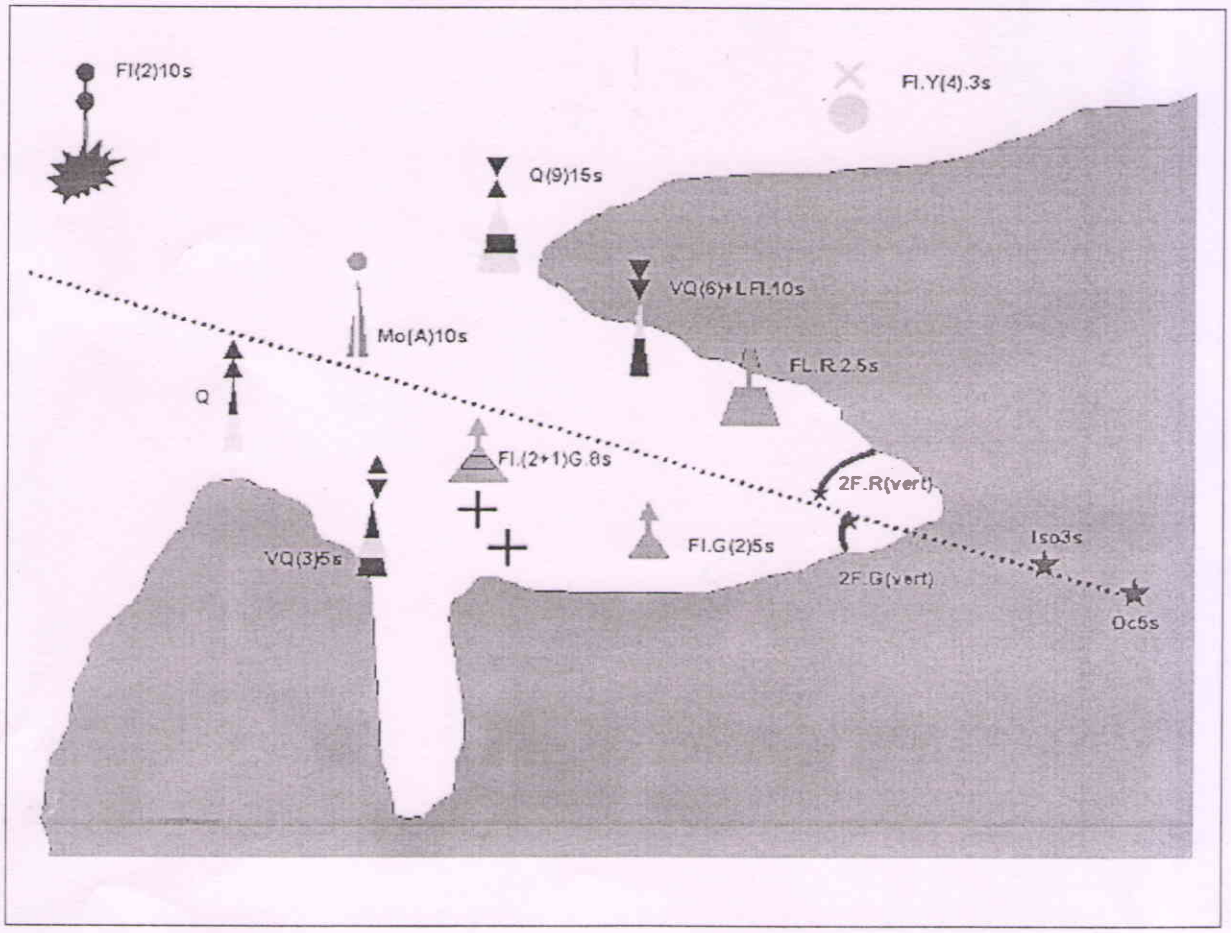

*****************The End /समाप्त********************

20/03/2018

Capt. Pranab Kumar Misra
Chief Operating Officer
Board of Examinations for Seafarers Trust